۱- الگوهای زیر را ادامه دهید

..... و ..... و

۵۰۰۰ و ۳۰۰۰ و ۱۰۰۰

..... و ..... و

..... و ۴۰۶۷ و ۳۰۶۷ و ۲۰۶۷

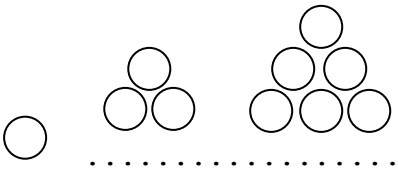

.....

۲- با توجه به کاری که هر ماشین انجام می دهد ، در جاهای خالی عدد مناسب بنویسید .

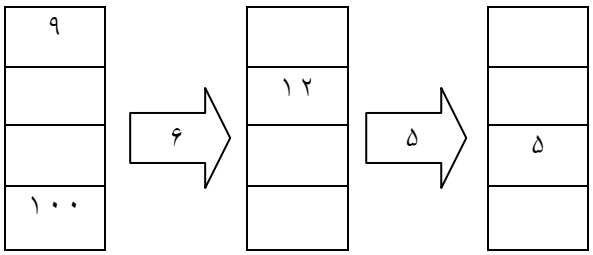

۳- علی ساعت ۸ صبح به مدرسه می رود . اگر زمان حضور او در مدرسه ۶ ساعت باشد ، علی چه ساعتی به خانه برمی گردد ؟(به ۲ صورت بیان کنید .)

۴- تمام عددهای ۳ رقمی را بنویسید که صدگان آن ۸ یا ۶ ، دهگان آن ۴ یا ۳ و یکان آن ۵ باشد .(از طریق جدول نظامدار)

۵- ۱۰ ریال ایران به اندازه ۵۰۰ پوند کشور شکرستان می ارزد . ۴تومان

ایران چند پوند کشور شکرستان است ؟

۶- در جاهای خالی عدد مناسب بنویسید .

۵۰۰ + ۳۰۰۰ +۴۰ = ...

۲۰۰۰ + ۲۰ + ۱ = ...

+..... +.....

۵۴۲۱ = ... +.....

+..... +.....

۹۰۴۸ = ...

۷- مدرسه ۶ پایه دارد که در هر پایه ۲ کلاس درس وجود دارد و هر کلاس ۲۰ دانش آموز دارد . ابتدا جدول را کامل کنید و سپس به سوالات پاسخ دهید .

پایه						
کلاس						
دانش آموز						

الف) ای

ب) این مدرسه چند دانش آموز دارد ؟

۸- پدر مهسا و مبینا به آنها مقدار مساوی شکلات داد $\frac{7}{8}$ مهسا و مبینا شکلات هایشان را خوردند . برای کدامیک مقدار بیشتری شکلات باقی مانده است ؟

۹- در جاهای خالی علامت مناسب > = <

$\frac{3}{6}$ ○ $\frac{1}{3}$ $\frac{4}{1}$ ○ $\frac{4}{8}$ $\frac{6}{6}$ ○ $\frac{2}{6}$

۳ واحد و $\frac{3}{3}$ واحد ○ $\frac{2}{3}$ واحد

۱۰- برای شکل روبرو ۲ کسر مساوی بنویسید .

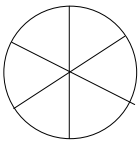

..... = ...

۱۱- جاهای خالی را به طور مناسب پر کنید .

۶۰ تومان ..... ریال است .

.....تومان ۷۰۰۰ریال است .

۷ کیلوگرم و ۵۵۰ گرم یعنی ..... گرم

۳۸۲۰ گرم یعنی ..... کیلوگرم و .....گرم

۱۴۳ سانتی متر یعنی .....متر و ..... سانتی متر

.....کیلومتر یعنی ۳۰۰۰ متر

۱۲- با استفاده از گونیا ، زاویه های راست را در شکل های زیر مشخص کنید .

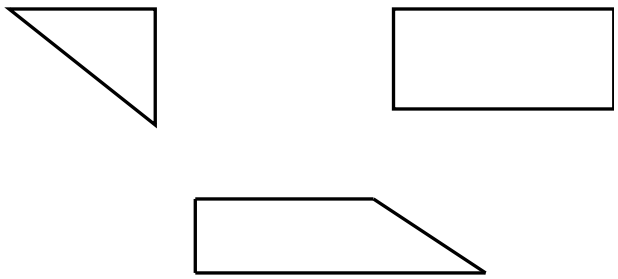

۱۳- ثنا ۳ بسته ۵ تایی و ثمین ۴ بسته ۵ تایی شکلات دارند . آنها روی هم رفته چند عدد شکلات دارند ؟

۱۴- در جاهای خالی عدد مناسب بنویسید .

+ (..... × .....)

۵ × (۳ + ۶) = (۵ × .....)

(۸ + ...) × ۳ = (..... × ۳)

(۳ × ۹) + (۳ × .....)

۱۵- در ۱ قسمت عدد خواسته شده را محور $\frac{}{۲}$ دهید .

۲ واحد و ←———— واحد

۱ واحد $\frac{۳}{۴}$ واحد ←————

انتظارات	خ خ	خ	ق ق	ن ت
۱- مفهوم شمارش چندتاچندتا را درک کرده است .				
۲- مفهوم ساعت قبل از ظهر و بعدازظهر را درک کرده است .				
۳- مفهوم واحدهای اندازه گیری طول و جرم و تبدیل آنها به یکدیگر را درک کرده است .				
۴- مفهوم اعداد چهار رقمی را درک نموده است.				
۵- مفهوم کسر را به خوبی درک نموده است .				
۶- مفهوم توزیع پذیری ضرب را به خوبی درک نموده است .				